مسابقة ثقافية

ملاحظة

تسليم المسابقة في نهاية الأسبوع الأول للعام الدراسي الجديد ١٤٤٠هـ

أ - ١ - رتبي الأصوات الآتية لتدل على الطيور والحيوانات :

١ - شدو ٢ - زقزقة ٣ - مواء ٤- خوار .

☐ العصافير ☐ البلابل ☐ البقرة ☐ القطة

٢- صنفي الكلمات التالية :

١ - الربيع ٢- في ٣- الطيور ٤- جاء ٥- يأتي ٦- ثم .

☐ حرف جر ☐ حرف عطف ☐ اسم يدل على أحد فصول السنة ☐ فعل ماض

☐ اسم يدل على الجمع ☐ فعل مضارع

ب - اختاري الإجابات الصحيحة :

١- من الطيور والحشرات التي نراها في فصل الربيع :

☐ البلابل والصقور ☐ الفراشات والبلابل ☐ العصافير والفراشات ☐ الحمام والفراشات

٢- الفقرة مجموعة من الجمل تشكل جزءًا من النص .

○ صواب ○ خطأ

٣- اختاري المجموعة التي كل كلماتها لم تكتب الألف في وسطها :

☐ لكن - أولئك - إله ☐ الرحمن - الله - إلى ☐ أحمد - الربيع - هؤلاء ☐ هاتان - لكن - على

أ - يحيا العامل بسعادة يحيى طالب نشيط

هل كتبت الكلمتين الملونتين بطريقة صحيحة؟ .....

ما دليلك على ما تقولين؟ .....

ب - سلمى - مستشفى اهتدى - ليلى - نجوى - اشترى

ما وجه الشبه في الكلمات السابقة ؟.....

هل كتبت الكلمات بطريقة صحيحة ؟.....

كيف اتخذت قرارك ؟ وما المعومات التي استندت عليها؟.....

اكتبي بعض الأفكار الإبداعية التي يمكن أن نكتشفها في حياتنا العامة لو فكرنا بالمقلوب

	الفكرة الإبداعية المقلوبة
١-	- يعد الطالب الدرس ، ويشرحه لزملائه .
٢-	- تغسل الطفلة الأواني ، وتشاهد الأم قناة الأطفال .
٣-	
٤-	
٥-	

لدينا قصة غير مكتملة، أكمليها من عندك ، ثم اقترحي نهاية مناسبة لها (حزينة ، غريبة ، سعيدة ، طريفة)

قصة مقترحة

كان الغزال الصغير يعيش بسعادة مع أصدقائه يلهو معهم ويلعب ، ولكنه في مرة من المرات أسرع في السير وركض كثيرًا حتى وجد أمامه عرين الأسد

.....

.....

.....

.....

هاتي عددًا من العناوين المناسبة للقصص التي قرأتها أو سمعتها :

في القرآن الكريم	في كتاب القراءة	في مادة التربية الوطنية
(قصة موسى عليه السلام مع فرعون)	( )	( )
نهاية طاغية كليم الله	....	....

من خلال الصورة السابقة :

أ- ضعي عنوانًا مناسبًا للصورة (.....)

ب- حددي مكونات الصورة الظاهرة ؟

١- طفلة ٢- ..... ٣- ..... ٤- .....

ج- تخيلي مكونات الصورة الغير ظاهرة ؟

١- أم ٢- طاولة ٣- ..... ٤- .....

د- اربطي بين بعض مكونات الصورة مع بيان العلاقة

(في الصورة السابقة مثلًا)

الطفلة + كعك محلى = الطفلة تشكو للتفاحة ضعف قدرتها على مقاومة الحلويات

الطفلة + ... = ...

..... + التفاحة = ...

..... + ... = الجسم السليم

هـ - فكري لماذا التقطت المصورة هذه الصورة ؟

.....

.....

.....

اختاري الإجابة الصحيحة فيما يلي :

١- فيم يتشابه خسوف القمر وكسوف الشمس ؟

أ- كلاهما مرتبط بالقمر .

ب- كلاهما يلقي بظلاله على الأرض .

ج- لا علاقة لهما بالنجوم .

د- كلاهما يلقي بظلاله على القمر .

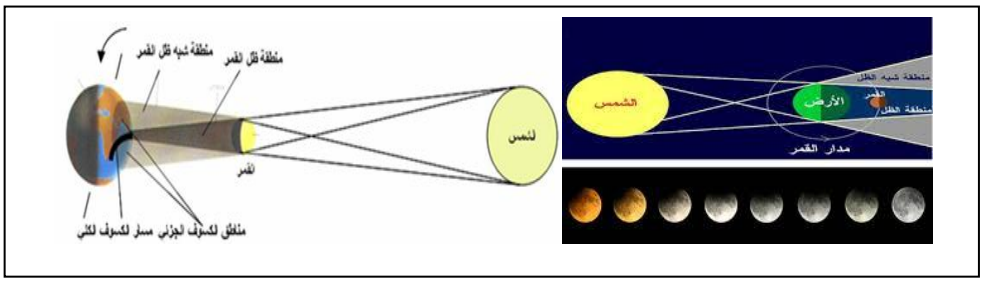

٢- أي مما يلي يعد مثالاً على التغيرات الكيميائية ؟

أ- تكسير أناء مصنوع من الزجاج .

ب- قلي البيض .

ج- انصهار الثلج في الماء .

د- تمدد المطاط .

٣- يدل عدم تحرك الحبل بين ولدين يلعبان لعبة شد الحبل على أن القوه بينهما ؟

أ- كبيرة .

ب- غير متزنة .

ج- متزنة .

د- قليلة .

٤- يتم وضع بيضة مسلوقة ساخنة في كوب من الماء البارد. ماذا يحدث لدرجة حرارة الماء والبيض ؟

أ- يصبح الماء أكثر برودة والبيض أكثر دفئاً .
ب- يصبح الماء أكثر دفئاً والبيض أكثر برودة .
ج- درجة حرارة الماء يبقى نفسه والبيض أبرد
د- كل من الماء والبيض يصبح دافئاً .



٥- إذا كان لدي ١٠٠ بذرة لكل من نبات الطماطم ونبات الفلفل البارد وكانت $\frac{٢}{٣}$ بذور الطماطم تنبت نباتات جديدة .
بينما تنبت $\frac{٢}{٥}$ بذور الفلفل البارد نباتات جديدة ، فأيهما ينبت نباتات أكثر ؟



.....

.....

تأملي الخارطة التي أمامك ثم استخرجي منها أشكال سطح الأرض ؟

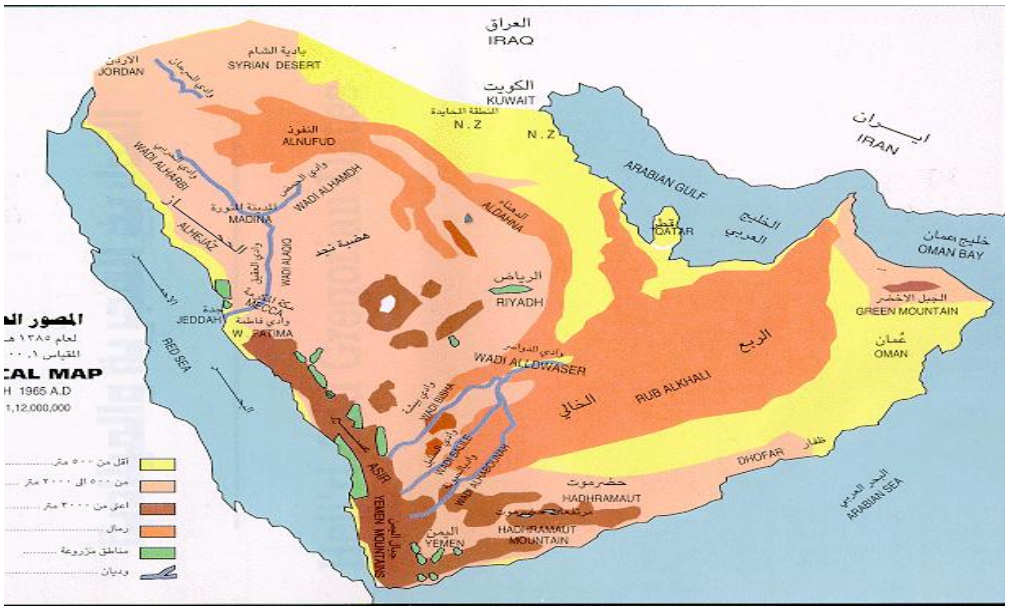

.....

.....

.....

١- صلي بين النقاط ثم اكتبي اسم القارة التي حصلت على شكلها ؟

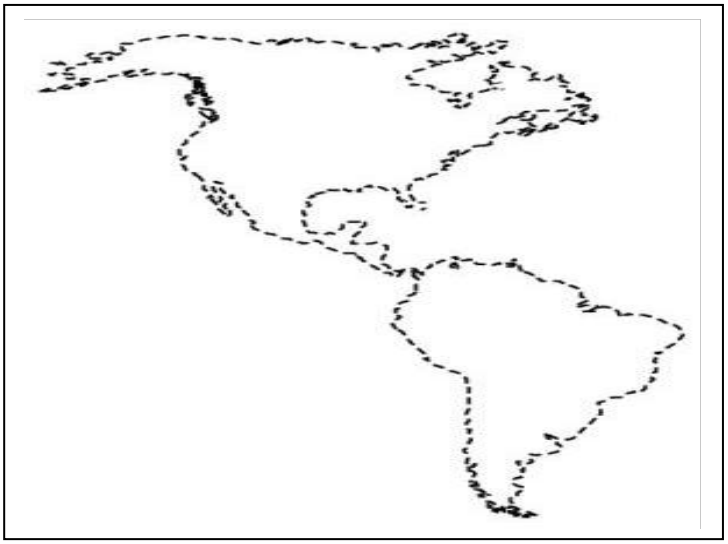

اسم القارة

.....

٢-قسمي الدائرة التي أمامك إلى مايمثل مساحة اليابسة ومساحة الماء على سطح الكرة الرضية ثم قومي بتلوينها باللون المناسب ؟

السؤال الرابع :

ضعي علامة صح أمام العبارة الصحيحة وعلامة خطأ أمام العبارة الخاطئة :

١- تمكن موسى عليه السلام من صناعة السفينة ( )
٢- الأنبياء جميعا يدعون إلى عبادة الله وحده لا شريك له ( )
٣- كانت نهاية عيسى عليه السلام مات مريضا ( )
٤- رفض إبليس عليه السلام السجود لآدم عليه وسلم ( )
٥- الكتاب الذي أنزل على عيسى عليه السلام الإنجيل ( )

إذا استخدمت حلقة خيوط لعمل الأشكال التالية أيها يضم المساحة الأكبر؟

أ – الدائرة
ب- المربع
ج – المثلث

ما الذي يقابل ٣÷ $\frac{١}{٣}$ ؟

أ- ١٢

ب- $\frac{١}{١٢}$

ت- ج- ٧٥,

إذا بدأت بخبز كعكة بعد ٢٠ دقيقة من الساعة السادسة إلا ربع واستغرقت عملية الخبز ٦٥ دقيقة فمتى انتهيت من الكعكة ؟

أ – ٦:٥٠

أ- ٧:١٠

ب-٦:٤٥

الشكل المقابل مكون من مربع ومستطيل عرض المستطيل مساوي لعرض المربع وطول المستطيل يساوي ضعف عرضه ، أوجدي محيط الأرض؟

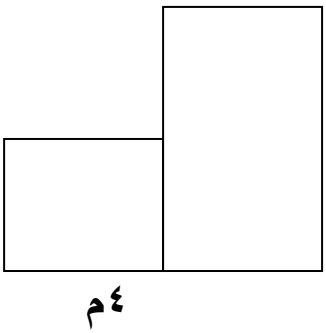

أ- ٣٢م

ب- ٢٨م

ج- ٢٠م

إذا اضفت ١٠% إلى ١٠٠ تحصل على ١١٠. إذا طرحت ١٠% من ١١٠ ما الذي تحصل عليه ؟

أ- ٩٠

ب- ٩٩

ج- ١٠٠

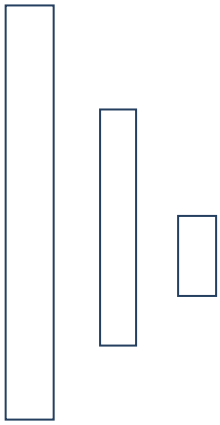

حددي البائن من الأشكال التالية مع ذكر معناها :

معنى البائن : .....

صنفي الراوي مع ما اشتهر به :

(محبا للعلم _ شجاعا منذ صغره _ حافظا للسانه _ دعا له الرسول ﷺ بوفرة العلم _ محبا للقران _ أمينا حافظا للسر _ خدم النبي ﷺ عشر سنين)

البراء بن عازب رضي الله عنه :

صفته

_____

_____

أبي هريرة رضي الله عنه :

صفته

_____

_____

_____

عبد الله بن عمر رضي الله عنه:

صفته

_____

_____

_____

أنس بن مالك رضي الله عنه :

صفته

_____

_____

_____

حذيفة بن اليمان رضي الله عنه

صفته

_____

_____

_____

أبي موسى الأشعري رضي الله عنه

صفته

_____

_____

_____

صغيرتي درست السيرة النبوية الشريفة وتعرفت على زوجات النبي ﷺ ،

أمامك معلومات لكل معلومة تكملة ، لون كل مربعين يكمل أحدهما الآخر بلون واحد .

أم المؤمنين عائشة رضي الله عنها	أول من آمن بالنبي ﷺ من النساء	مشهورة بالذكاء وقوة الحفظ
أم المؤمنين حفصة رضي الله عنها	وضع المسلمون عندها المصحف الذي جمعه أبو بكر الصديق رضي الله عنه	أم المؤمنين خديجة رضي الله عنها
بنت أبي بكر الصديق رضي الله عنه	بنت عمر بن الخطاب رضي الله عنه	بنت خويلد رضي الله عنها

استيقظ محمد مبكرًا يوم الجمعة وبعد استيقاظه ردد دعاء الاستيقاظ ثم توضأ لأداء صلاة الضحى ثم أخذ يستعد لأداء صلاة الجمعة فبدأ بالاغتسال والطيب ثم قرأ سورة الكهف فذهب مبكرًا لأداء الصلاة وهو يردد الصلاة على النبي ﷺ طوال وقته وبعد عودته من صلاة الجمعة كان يكثر من الدعاء تحريًا لساعة الاستجابة حتى وقت المغرب .

من خلال ما قرأته من القصة السابقة استخرجي آداب وسنن يوم الجمعة التي طبقها محمد .

آداب يوم الجمعة :

أقرأ سورة الفاتحة وأستنبط منها الأمثلة حسب الجدول التالي :

	الأمثلة	الشاهد من الآية
توحيد الربوبية		
توحيد الألوهية		
توحيد الأسماء والصفات		

ميزي بالصور توحيد الربوبية من توحيد الألوهية :

....

....

بالرجوع إلى تفسير سورة سبأ من كتاب تفسير ابن كثير أجيبي عما يأتي :

١ / ما اسم الطائر الغيور على التوحيد ؟

.....

٢ / ما اسم النبي المذكور في القصة ؟

.....

٣ / ما الفعل الخطأ الذي ارتكبته الملكة وقومها ؟

.....

٤ / ما الفعل الصواب الذي فعلته الملكة وقومها ؟

.....

رقمي صور أركان الصلاة بالتسلسل حسب موضعها في الصلاة :

.....

.....

.....

.....

.....

بالرجوع إلى تفسير سورة الفاتحة من كتاب تفسير ابن كثير ، أجيبي عن ما يلي :

١ / اذكري حديث يبين أن سورة الفاتحة أعظم سورة في القرآن الكريم .

.....

٢/ لماذا سميت سورة الفاتحة بهذا الاسم ؟

.....

٣ / اذكري أسماء أخرى لسورة الفاتحة :

.....

٤ / ما معنى السبع المثاني ؟

.....